PLAN DE NIVELACIÓN ANUAL AREA SOCIALES GRADO QUINTO

NOMBRE _____ **Fecha:**_____

1. **Completa las siguientes ideas:**

EL GOBIERNO ESCOLAR en Colombia está integrado principalmente por el rector (líder y representante), el Consejo Directivo (máxima autoridad decisoria) y el Consejo Académico (orientador pedagógico). Además, cuenta con órganos de participación como el Consejo Estudiantil, Consejo de Padres y el/la Personero/a Estudiantil, y el/la contralor/a Escribe y completa las siguientes definiciones relacionadas con el gobierno escolar

_____es la que se encarga de llevar a cabo la orientación y la ejecución del proyecto educativo institucional y también se encarga de aplicar las decisiones que se toman dentro del gobierno escolar.

_____ es quien se encarga de tomar las decisiones que influyen en el funcionamiento de la institución, excepto aquellos casos donde las decisiones sean competencia de otra autoridad.

_____ este consejo cumple la función de órgano consultor del Consejo Directivo dentro de la institución, es quien se encarga también de estudiar el currículo (Planes de área) y propiciar el continuo mejoramiento del mismo.

_____ es un estudiante que se encarga de promover el cumplimiento de todos los derechos, así como de los deberes que tienen los estudiantes, haciendo uso de medios de comunicación internos de la institución.

_____Grupo de estudiantes que presenten iniciativas en relación al desarrollo de la vida estudiantil.

2. Según el artículo 113 de la Constitución Política de Colombia de 1991, el poder público se divide en tres ramas: **legislativa**, **ejecutiva** y **judicial**. **Completa el siguiente Mapa Conceptual:**

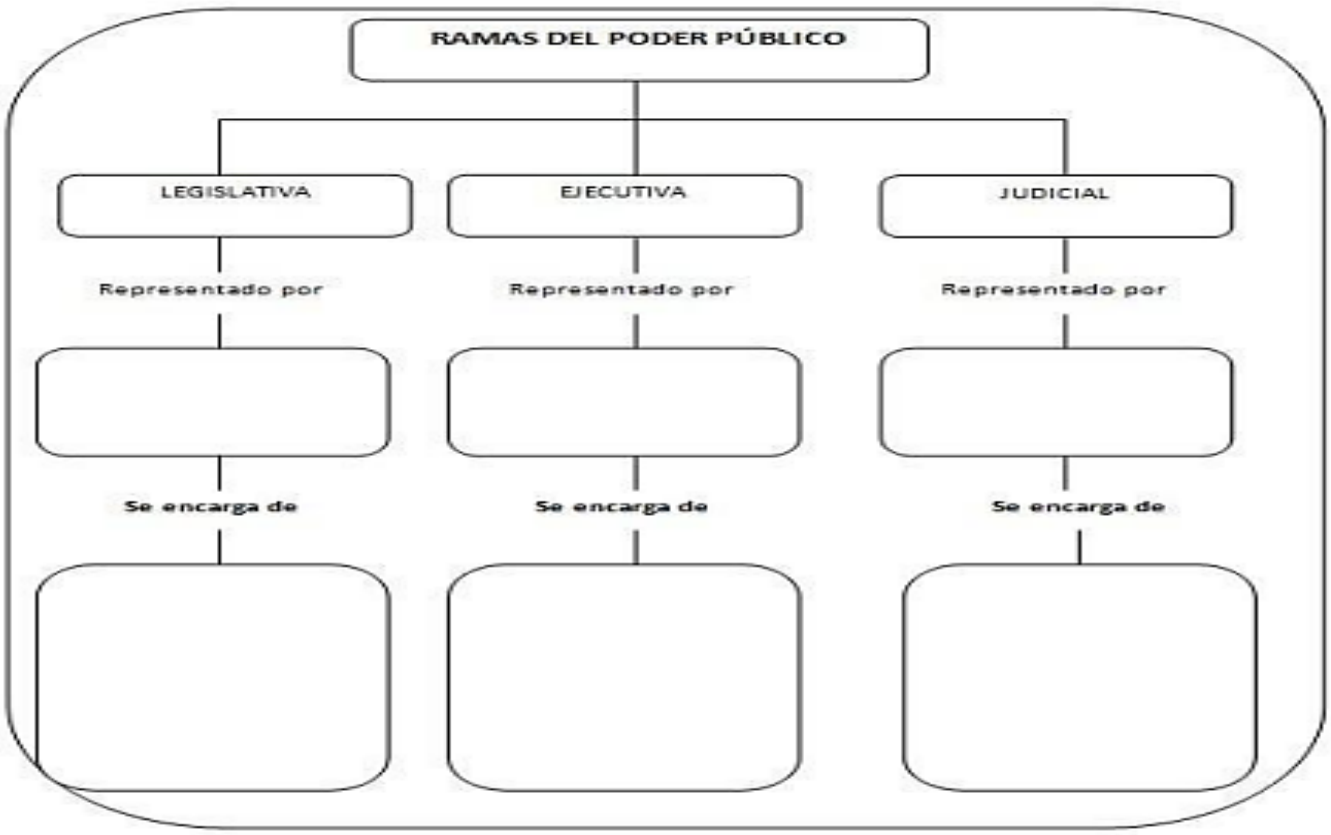

3. Realizo un escrito donde hable de los cuatro sectores de la Economía Colombia

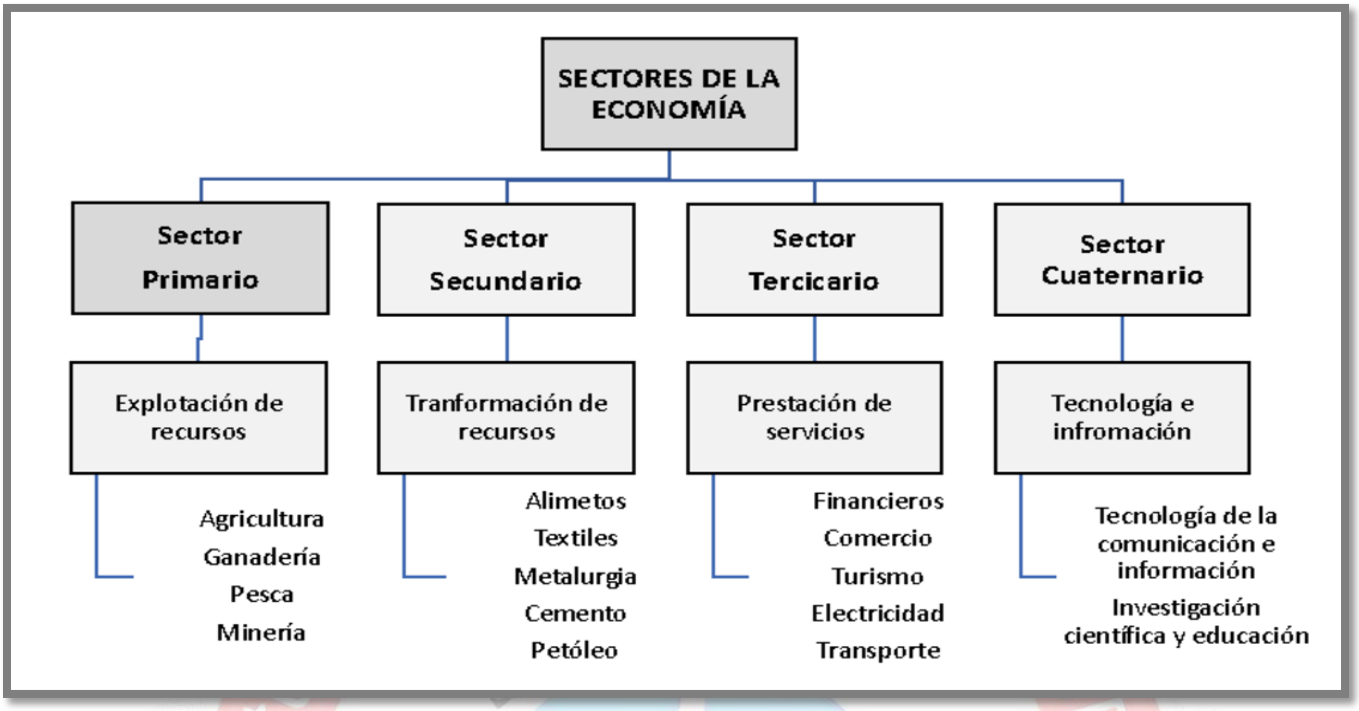

4. Realiza la siguiente ficha didáctica sobre los pisos térmicos

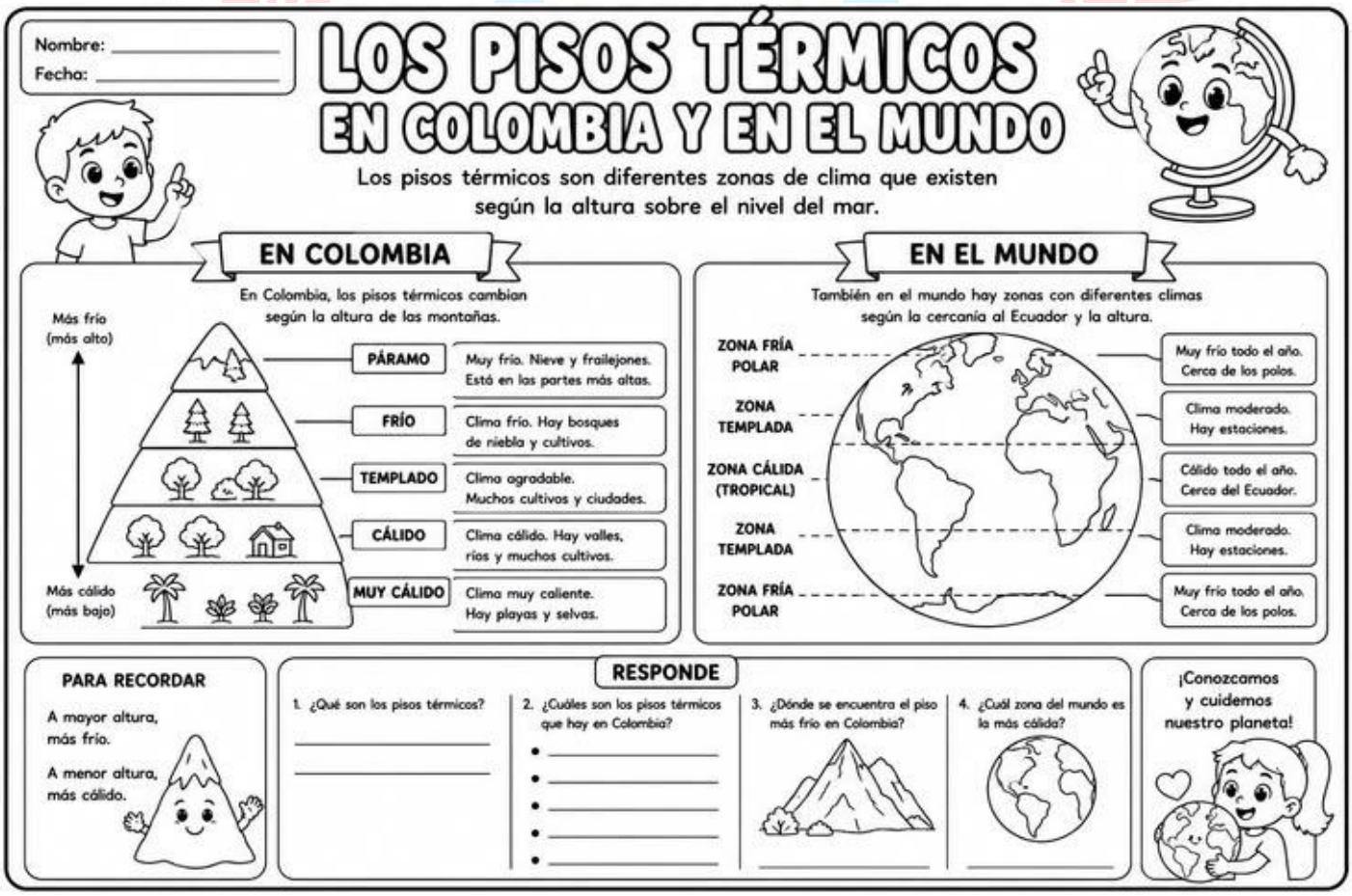

Sede Central +57 3243009932
Sede Santo Tomás +57 3243009934
Sede Central: Carrera 29 No. 41-14, Medellín
Sede Santo Tomás: Carrera 33 No. 36A-28, Medellín
secretaria@ielamilagrosa.edu.co

5. Realiza la siguiente ficha relacionada con la División Politica de Colombia

Nombre: _____ Fecha: _____



La división política de Colombia

Demuestra lo que sabes sobre la organización política de nuestro país.



1. Selección múltiple

Marca la respuesta correcta.

1. ¿Cuál es la entidad territorial más grande de Colombia?
   - A. El municipio
   - B. El departamento
   - C. El distrito
   - D. La vereda
2. ¿Cuántos departamentos tiene Colombia?
   - A. 28
   - B. 30
   - C. 32
   - D. 33
3. ¿Cuál es la capital del país?
   - A. Medellín
   - B. Cali
   - C. Bogotá D.C.
   - D. Cartagena

2. Observa el mapa y responde

Escribe el nombre de la entidad territorial que señala cada número.

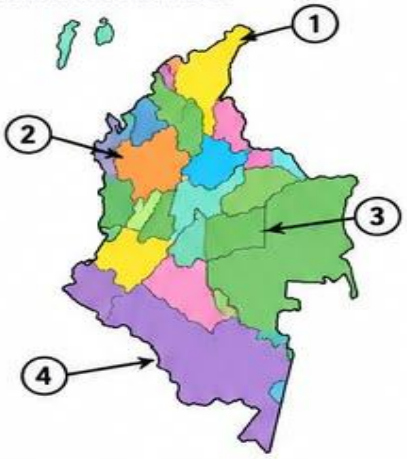

1. _____
2. _____
3. _____
4. _____

3. Verdadero o falso

Lee cada afirmación y marca V (verdadero) o F (falso).

1. ☐	La división política de Colombia está formada por departamentos, municipios, distritos y territorios indígenas.	V	V	F
2. ☐	Bogotá es un municipio.	V	V	F
3. ☐	Los departamentos se dividen en municipios.	V	V	F
4. ☐	Colombia tiene 6 regiones naturales, pero su división política no depende de ellas.	V	V	F
5. ☐	Los territorios indígenas son entidades territoriales de Colombia.	V	V	F

4. Completa

1. El país está dividido en _____ departamentos, _____ distritos, _____ municipios y _____ territorios indígenas.
2. La entidad territorial más pequeña es el _____.
3. El _____ es la máxima autoridad del municipio.
4. La división política de Colombia permite organizar el territorio y garantizar la administración del país.

5. Respuesta corta

1. ¿Cuál es la diferencia entre un departamento y un municipio?
   _____
   _____
2. ¿Qué departamento de tu región te gusta más? ¿Por qué?
   _____
   _____
3. ¿Para qué crees que es importante conocer la división política de Colombia?
   _____
   _____

Conocer nuestro territorio también es conocer nuestra identidad.



6. ..Realiza la siguiente ficha relacionada con las epocas de la Historia de Colombia

Las épocas de la historia de Colombia

La historia de Colombia se divide en diferentes épocas. Cada una de ellas nos cuenta lo que pasó en nuestro territorio y cómo ha cambiado con el tiempo.

Época Precolombina

Antes de la llegada de los españoles.

- Vivían diferentes pueblos indígenas como los muiscas, taironas, quimbayas y zenúes.
- Cultivaban alimentos como maíz, yuca y papa.
- Elaboraban objetos de oro, cerámica y tejidos.
- Tenían sus propias costumbres, lenguas y formas de organización.



Época de la Conquista

Siglo XVI.

- Los españoles llegaron al territorio colombiano.
- Se encontraron con pueblos indígenas.
- Exploraron y ocuparon nuevos territorios.
- Hubo enfrentamientos y cambios en las comunidades indígenas.
- Se fundaron algunas de las primeras ciudades.



Época Colonial

Desde 1550 hasta 1810.

- El territorio estuvo bajo el dominio de España.
- Se estableció el Virreinato de la Nueva Granada.
- La sociedad estaba organizada en diferentes grupos sociales.
- Se desarrollaron la agricultura, la minería y el comercio.
- Llegaron personas africanas que fueron sometidas a la esclavitud.



Época de la Independencia

1810 – 1819.

- Los habitantes de la Nueva Granada lucharon por su independencia de España.
- El 20 de julio de 1810 ocurrió el Grito de Independencia.
- Participaron personajes como Simón Bolívar, Francisco de Paula Santander y Policarpa Salavarrieta.
- El 7 de agosto de 1819 ocurrió la Batalla de Boyacá, fundamental para la independencia.



Época Republicana

Desde 1819 hasta la actualidad.

- Colombia comenzó a organizarse como una república.
- Se crearon leyes e instituciones para gobernar el país.
- Se desarrollaron las ciudades, los medios de transporte, la educación y la tecnología.
- Actualmente Colombia es una república democrática.



Para recordar:

Precolombina (Indígenas) → Conquista (Españoles llegan) → Colonia (Dominio español) → Independencia (Lucha por la libertad) → República (Colombia como república)

Actividades

1 Selecciona la respuesta correcta.

a) ¿Qué época fue antes de la llegada de los españoles?

- ☐ A. Conquista
- ☐ B. Precolombina
- ☐ C. Colonial
- ☐ D. Republicana

b) ¿Qué ocurrió el 20 de julio de 1810?

- ☐ A. La Batalla de Boyacá
- ☐ B. El Grito de Independencia
- ☐ C. La llegada de los españoles
- ☐ D. La fundación de Bogotá

2 Une con una línea cada época con su característica.

Precolombina	Colombia se organiza como un país independiente.
Conquista	Vivían diferentes pueblos indígenas.
Colonia	Los españoles llegaron al territorio.
Independencia	Se luchó para lograr la libertad de España.
República	El territorio estuvo bajo el dominio español.

¡Conocer nuestro pasado también nos ayuda a construir un mejor futuro!

3 Responde las preguntas.

a) ¿Quiénes habitaban nuestro territorio antes de la llegada de los españoles?

b) ¿Qué ocurrió en la Batalla de Boyacá?

c) ¿Por qué es importante conocer la historia de Colombia?

d) ¿En qué época vivimos actualmente?

4 Ordena las épocas de la más antigua a la más reciente.

☐ Precolombina ☐ Conquista ☐ Colonia ☐ Independencia ☐ República

5 Dibuja algo que represente cada época de la historia de Colombia.

Precolombina | Conquista | Colonia | Independencia | República

Sede Central +57 3243009932
Sede Santo Tomás +57 3243009934
Sede Central: Carrera 29 No. 41-14, Medellín
Sede Santo Tomás: Carrera 33 No. 36A-28, Medellín
secretaria@ielamilagrosa.edu.co

7. Realiza la siguiente ficha relacionada con los meridianos y Paralelos

Nombre: _____ Fecha: _____

HEMISFERIOS, LÍNEA ECUATORIAL, PARALELOS Y MERIDIANOS



La Tierra tiene líneas imaginarias que nos ayudan a ubicar lugares.

- **Hemisferios:** la Tierra se divide en 4 partes: Norte, Sur, Este y Oeste.
- **Línea ecuatorial:** es el paralelo principal que divide la Tierra en Hemisferio Norte y Hemisferio Sur.
- **Paralelos:** son líneas imaginarias horizontales que rodean la Tierra.
- **Meridianos:** son líneas imaginarias verticales que van de polo a polo.
- **Meridiano de Greenwich:** es el meridiano principal que divide la Tierra en Hemisferio Este y Hemisferio Oeste.

1. Completa las oraciones con las palabras del recuadro.

ecuatorial	paralelos	meridianos	Norte
Sur	Este	Oeste	Greenwich

a) La _____ divide la Tierra en Hemisferio Norte y Hemisferio Sur.

b) Los _____ son líneas horizontales.

c) Los _____ son líneas verticales.

d) El Hemisferio _____ está arriba de la línea ecuatorial.

e) El Hemisferio _____ está abajo de la línea ecuatorial.

f) El meridiano de _____ divide la Tierra en Hemisferio Este y Hemisferio Oeste.

2. Escribe V si es verdadero o F si es falso.

( ) a) La línea ecuatorial divide la Tierra en Norte y Sur.

( ) b) Los paralelos son líneas verticales.

( ) c) Los meridianos van de este a oeste.

( ) d) El meridiano de Greenwich divide la Tierra en Este y Oeste.

( ) e) El Hemisferio Norte está debajo de la línea ecuatorial.

( ) f) Los paralelos son líneas imaginarias horizontales.

3. Une con una línea cada concepto con su definición.

Hemisferios	Es el meridiano principal que divide la Tierra en Este y Oeste.
Línea ecuatorial	Son líneas imaginarias verticales que van de polo a polo.
Paralelos	Son las cuatro partes de la Tierra: Norte, Sur, Este y Oeste.
Meridianos	Es el paralelo principal que divide la Tierra en Norte y Sur.
Meridiano de Greenwich	Son líneas imaginarias horizontales que rodean la Tierra.

4. Observa el globo terráqueo y escribe los nombres donde corresponda.

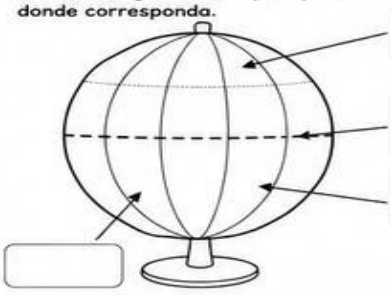

Línea ecuatorial Paralelos Meridianos Meridiano de Greenwich

5. Dibuja y colorea.

a) Hemisferio Norte | b) Hemisferio Sur | c) Hemisferio Este | d) Hemisferio Oeste



6. Observa los animales invertebrados y escribe a qué grupo pertenecen.
(moluscos, artrópodos, anélidos, equinodermos, cnidarios, poríferos)



_____ _____ _____ _____ _____ _____

7. Responde.
¿Por qué crees que es importante conocer los hemisferios, los paralelos y los meridianos?

_____
_____
_____